算数 15. 小数のかけ算とわり算

72〜92

なまえ　　組　　番

技能 50点　数学的な考え方 50点　合計 100点

技能　各5点[50]

1 かけ算をしましょう。　各5点[20]

① 2.4 × 6 = 14.4

② 8.5 × 28 = 238

③ 0.19 × 3 = 0.57

④ 3.72 × 49 = 182.28

2 わりきれるまで計算しましょう。各5点[20]

① 6)8.4 = 1.4

② 23)62.1 = 2.7

③ 7)0.28 = 0.04

④ 52)39 = 0.75

3 商は一の位まで求めて，あまりもだしましょう。　完全正答 各5点[10]

① 4)93.5　(あまり 1.5)

② 17)54.2　(あまり 1.2)

数学的な考え方　各5点[50]

4 0.5L入りのジュースが3本あります。ジュースは，全部で何Lありますか。　式・答 各5点[10]





計算らん

式 0.5 × 3 = 1.5

答え 1.5L

5 テープを13.5cmずつ，7人に配ります。テープは何cmいりますか。　式・答 各5点[10]



計算らん

式 13.5 × 7 = 94.5

答え 94.5cm

6 6.8kgの塩を5つのふくろに等分します。1ふくろ分の塩の重さは何kgになりますか。　式・答 各5点[10]

計算らん

式 6.8 ÷ 5 = 1.36

答え 1.36kg

7 45.6dLのお茶を14人で等分すると，1人分はおよそ何dLになりますか。答えは四捨五入して，上から2けたのがい数で求めましょう。　式・答 各5点[10]

計算らん

式 45.6 ÷ 14 = 3.257…

答え 3.3dL

8 絵はがきのねだんは75円で，切手のねだんは50円です。絵はがきのねだんは，切手のねだんの何倍ですか。　式・答 各5点[10]

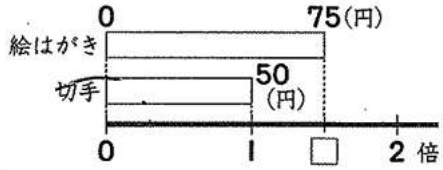





計算らん

式 75 ÷ 50 = 1.5

答え 1.5倍

うらの問題もやりましょう。

光文書院

算数 15. 小数のかけ算とわり算

72〜92

なまえ　　組　　番

知識・理解　50

知識・理解　各10点[50]

9 0.4×3の計算のしかたを考えます。□にあてはまる数を書きましょう。　各10点[30]

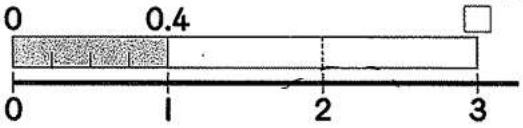

① 0.4は，0.1が□こ分。

② 0.4×3の答えは，0.1が(4×3)こ分だから，0.1が□こ分。

③ 0.4×3＝□

10 72.9÷5の筆算をして，商を一の位まで求めました。　②は完全正答 各10点[20]

```
  1 4
5)7 2.9
  5
  2 2
  2 0
    □
```

① あまりはいくつですか。

72.9÷5＝14あまり□

② けん算をしましょう。

5×□＋□＝□

終わったら，答えを見なおしましょう。（　）

1年間をふりかえって

おもしろかった勉強の□に○を書きましょう。



おもしろかったことや，もっと知りたかったことを書きましょう。

（　　）

算数 15. 小数のかけ算とわり算

72～92

なまえ　組　番

技能 50　数学的な考え方 50　点

技能　各5点[50]

1 かけ算をしましょう。　各5点[20]

① 2.4 × 6 = 14.4

② 8.5 × 28 = 680 + 170 = 238.0

③ 0.19 × 3 = 0.57

④ 3.72 × 49 = 3348 + 1488 = 182.28

2 わりきれるまで計算しましょう。　各5点[20]

① 6)8.4 = 1.4　6　24　24　0

② 23)62.1 = 2.7　46　161　161　0

③ 7)0.28 = 0.04　28　0

④ 52)39.00 = 0.75　364　260　260　0

3 商(しょう)は一の位(くらい)まで求(もと)めて，あまりもだしましょう。　完全正答 各5点[10]

① 4)93.5 = 23　8　13　12　1.5　(23 あまり 1.5)

② 17)54.2 = 3　51　3.2　(3 あまり 3.2)

数学的な考え方　各5点[50]

4 0.5L入りのジュースが3本あります。ジュースは，全部で何Lありますか。　式・答 各5点[10]

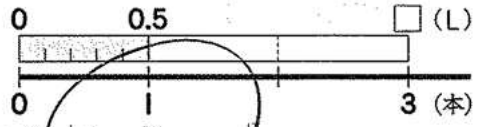

式 0.5×3

答え(1.5L)

計算らん 0.5 × 3 = 1.5

5 テープを13.5cmずつ，7人に配ります。テープは何cmいりますか。　式・答 各5点[10]



式 13.5×7

答え(94.5cm)

計算らん 13.5 × 7 = 94.5

6 6.8kgの塩を5つのふくろに等分します。1ふくろ分の塩の重さは何kgになりますか。　式・答 各5点[10]

式 6.8÷5

答え(1.36kg)

計算らん 5)6.80 = 1.36　5　18　15　30　30　0

7 45.6dLのお茶を14人で等分すると，1人分はおよそ何dLになりますか。答えは四捨五入(ししゃごにゅう)して，上から2けたのがい数(すう)で求めましょう。　式・答 各5点[10]

式 45.6÷14

答え(およそ3.3dL)

計算らん 14)45.6 = 3.2　42　36　28　8　7　1

8 絵はがきのねだんは75円で，切手のねだんは50円です。絵はがきのねだんは，切手のねだんの何倍ですか。　式・答 各5点[10]





式 75÷50

答え(1.5倍)

計算らん 50)75.0 = 1.5　50　250　250　0

うらの問題もやりましょう。

光文書院

算数 15. 小数のかけ算とわり算

72〜92

なまえ　　組　　番

知識・理解　50

知識・理解　各10点[50]

9 0.4×3の計算のしかたを考えます。□にあてはまる数を書きましょう。　各10点[30]

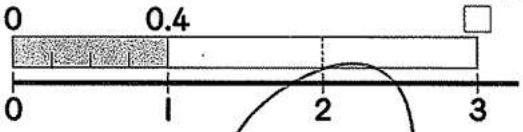

① 0.4は，0.1が［4］こ分。

② 0.4×3の答えは，0.1が(4×3)こ分だから，0.1が［12］こ分。

③ 0.4×3＝［1.2］

10 72.9÷5の筆算をして，商を一の位まで求めました。　②は完全正答 各10点[20]

```
  14
5)72.9
  5
  22
  20
   2.9
```

① あまりはいくつですか。

72.9÷5＝14あまり［2.9］

② けん算をしましょう。

5×［14］＋［2.9］＝［72.9］

終わったら，答えを見なおしましょう。（○）

1年間をふりかえって

おもしろかった勉強の□に○を書きましょう。



おもしろかったことや，もっと知りたかったことを書きましょう。

（・小数のわり算の問題をよく読んで計算できたのがうれしかった。もっと小さい小数の計算もやりたい。）