⑬ 4年 東A めあて ・がい数の正しい　方がわかる。…❶ ・がい数の求め方がわかる。…❷～❹ ・がい数の計算を使って，問題をとくことができる。…❺～❼

光文書院

算数 14. がい数の表し方

58～70

なまえ　組　番

知識・理解 50　数学的な考え方 50　点

知識・理解　各5点[50]

1 がい数で表すとよいものを2つ選んで，○をつけましょう。　各5点(10)

(　　) 東京都で1年間に出るゴミの量

(　　) 自転車の代金

(　　) かぜをひいたときの体温

(　　) 北海道の面積

2 下の数直線を見て答えましょう。　各5点(20)

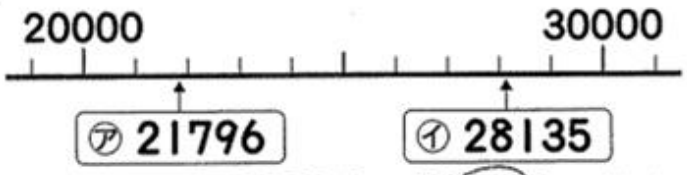

① ㋐の数は，20000と30000のどちらに近いですか。

(　　)

② 約何万とがい数で表すには，何の位の数字を四捨五入すればよいですか。

(　　の位)

③ ㋐，㋑の数は，約何万ですか。

㋐(　　)　㋑(　　)

3 次の数を四捨五入して，一万の位までのがい数にしましょう。　各5点(10)

① 54918　(　　)

② 127035　(　　)

4 次の数を四捨五入して，上から2けたのがい数にしましょう。　各5点(10)

① 7638　(　　)

② 31594　(　　)

数学的な考え方　各10点[50]

5 下の3つのものを買うとき，1000円で足りるかどうかを調べるには，下の㋐から㋒のどのがい数の計算をすればよいですか。(10)



㋐ 400＋100＋200

㋑ 500＋200＋300

㋒ 400＋200＋300

(　　)

6 動物園の1人分の入園料は，410円です。19人分の入園料は，およそ何円になりますか。四捨五入して上から1けたのがい数にして，答えを見積もりましょう。　式・答 各10点(20)



見積もりの式

見積もった答え(　　)

7 1こ175円のケーキがあります。2800円では，このケーキをおよそ何こ買うことができますか。四捨五入して上から1けたのがい数にして，答えを見積もりましょう。　式・答 各10点(20)

見積もりの式

見積もった答え(　　)

うらの問題もやりましょう。

算数 14. がい数の表し方

58〜70

なまえ 組 ）番

知識・理解 50 / 数学的な考え方 50 / 100 点

知識・理解 各5点[50]

1 がい数で表すとよいものを2つ選んで，○をつけましょう。 各5点[10]

(○) 東京都で1年間に出るゴミの量

( ) 自転車の代金

( ) かぜをひいたときの体温

(○) 北海道の面積

2 下の数直線を見て答えましょう。 各5点[20]

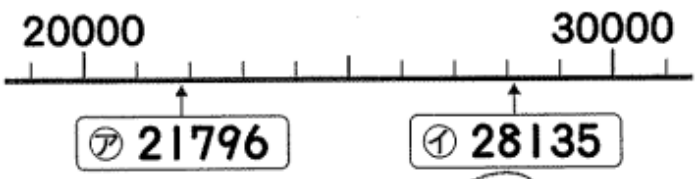

① ㋐の数は，20000と30000のどちらに近いですか。 (20000)

② 約何万とがい数で表すには，何の位の数字を四捨五入すればよいですか。 (千の位)

③ ㋐，㋑の数は，約何万ですか。

㋐ (20000) ㋑ (30000)

3 次の数を四捨五入して，一万の位までのがい数にしましょう。 各5点[10]

① 54918 (50000)

② 127035 (130000)

4 次の数を四捨五入して，上から2けたのがい数にしましょう。 各5点[10]

① 7638 (7600)

② 31594 (32000)

数学的な考え方 各10点[50]

5 下の3つのものを買うとき，1000円で足りるかどうかを調べるには，下の㋐から㋒のどのがい数の計算をすればよいですか。 [10]



㋐ 400+100+200

㋑ 500+200+300

㋒ 400+200+300

(㋑)

6 動物園の1人分の入園料は，410円です。19人分の入園料は，およそ何円になりますか。四捨五入して上から1けたのがい数にして，答えを見積もりましょう。 式・答 各10点[20]



見積もりの式 400×20=8000

見積もった答え (約8000円)

7 1こ175円のケーキがあります。2800円では，このケーキをおよそ何こ買うことができますか。四捨五入して上から1けたのがい数にして，答えを見積もりましょう。 式・答 各10点[20]

見積もりの式 3000÷200=15

見積もった答え (約15こ)

うらの問題もやりましょう。

算数 14. がい数の表し方

58〜70

なまえ　　組　　番

技能 50

技能　各10点[50]

8 四捨五入して百の位までのがい数にして，計算しましょう。　完全正答 各10点[20]

① 431＋164

□ ＋ □ ＝ □

② 613−347

□ − □ ＝ □

9 四捨五入して上から1けたのがい数にして，計算しましょう。　完全正答 各10点[20]

① 382×534

□ × □ ＝ □

② 9044÷28

□ ÷ □ ＝ □

10 四捨五入して，十の位までのがい数にすると，730になる整数のはんいを，以上，未満を使って表しましょう。　完全正答 [10]

720　725　730　735　740

▶（　　以上　　未満）

終わったら，答えを見なおしましょう。

おもしろ算数　いちばん売れたのは？

ある店で，1週間にどのおもちゃが何こ売れたかを調べました。売れた合計の金がくがいちばん多かったのはどれですか。見当をつけて答えましょう。

それぞれ上から1けたのがい数にして計算してみよう。

▶見当をつけて，売れた合計の金がくがいちばん多かったおもちゃ（　　）









売れた数⇨ 33こ　72こ　51こ　19こ

算数 14. がい数の表し方

58〜70

なまえ　　組　　番

技能 50

技能　各10点[50]

8 四捨五入して百の位までのがい数にして，計算しましょう。　完全正答 各10点[20]

① 431＋164

400 ＋ 200 ＝ 600

② 613−347

600 − 300 ＝ 300

9 四捨五入して上から1けたのがい数にして，計算しましょう。　完全正答 各10点[20]

① 382×534

400 × 500 ＝ 200000

② 9044÷28

9000 ÷ 30 ＝ 300

10 四捨五入して，十の位までのがい数にすると，730になる整数のはんいを，以上，未満を使って表しましょう。　完全正答 [10]



▶（725 以上 735 未満）

終わったら，答えを見なおしましょう。

おもしろ ぎんざ　いちばん売れたのは？

ある店で，1週間にどのおもちゃが何こ売れたかを調べました。売れた合計の金がくがいちばん多かったのはどれですか。見当をつけて答えましょう。



▶見当をつけて，売れた合計の金がくがいちばん多かったおもちゃ（プラモデル）



売れた数⇨ 33こ　500×30 ＝15000



72こ　300×70 ＝21000



51こ　600×50 ＝30000



19こ　800×20 ＝16000